令和２年度青森山田高等学校Ａ日程学力検査

社　　会

注　　意

1　問題用紙は「始めなさい」という合図があるまで開いてはいけません。
2　問題用紙は表紙を入れて８ページあり，これとは別に解答用紙が１枚あります。
3　受検番号は，検査開始後，解答用紙の決められた欄に記入しなさい。
4　机の上に置けるものは，受検票・鉛筆（シャープペンシルも可）・消しゴム・鉛筆削りです。
5　筆記用具の貸し借りはいけません。
6　問題を読むとき，声を出してはいけません。
7　印刷がはっきりしなくて読めないときや，筆記用具を落としたときなどは，だまって手をあげなさい。
8　「やめなさい」という合図ですぐに書くのをやめ，筆記用具を置きなさい。

答えの書き方

1　答えは，問題の指示に従って，すべて解答用紙に記入しなさい。
2　答えはていねいに書きなさい。答えを書き直すときは，きれいに消してから書きなさい。

1 下の略地図や資料を見て，後の（1）～（6）に答えなさい。（13 点）

略地図（略地図と資料１のＡ～Ｄの国は同じです。）

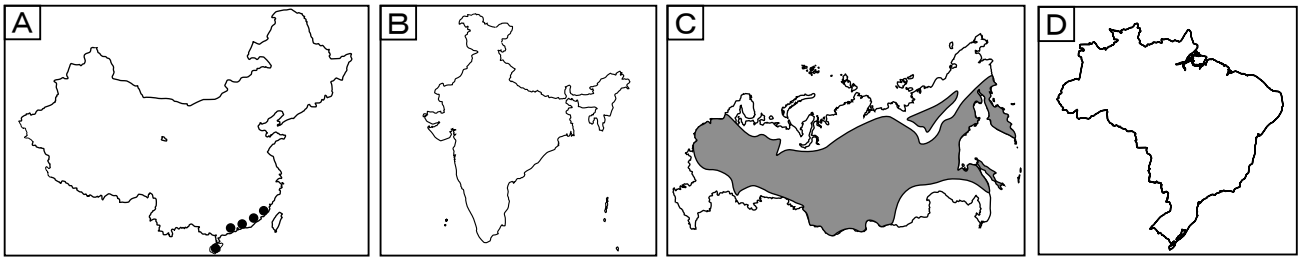

資料１

	国	面積（㎢）	人口（万人）	第１次産業（%）	第２次産業（%）	第３次産業（%）	GNI/1 人（ドル）	CO2 排出量/1 人（年：トン）
各国のデータ	A	9,601,136	141598	27.0	28.1	44.9	8,690	6.57
	B	3,287,263	128360	47.0	24.4	28.6	1,820	1.57
	C	17,098,246	14350	5.9	27.0	67.1	9,230	9.97
	D	8,515,767	20766	9.5	20.5	70.0	8,580	2.01

（「帝国書院 HP　統計資料 2018」による）

(1) 資料１のＡ～Ｄの国について，各国のデータから読み取れることとして適切なものを，次の１～４の中から一つ選び，その番号を書きなさい。

1　第３次産業の割合が高い国の順序と，ＧＮＩの高い国の順序が同じである。
2　ＧＮＩが高い国の順序と，CO2 排出量の多い国の順序が同じである。
3　面積が広い国の順序と，第１次産業の比率が高い国の順序が同じである。
4　Ａの人口密度は，Ｃの人口密度の約 10 倍である。

資料２

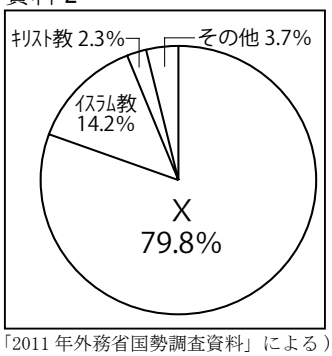

（「2011 年外務省国勢調査資料」による）

(2) 略地図Ａの●は，経済特別区と呼ばれている場所です。この特別区を設置することで得られるメリットを，次の二つの語句を用いて書きなさい。

外国　　**技術**

(3) 資料２はＢで信仰されている宗教の信者の割合を示しています。Ｘにあてはまる宗教名を書きなさい。

(4) 下の図は，産業別就業人口構成を表しています。資料１のＡ～Ｄの産業別就業人構成を正しく表しているものを，下の１～４の中から一つ選び，その番号を書きなさい。

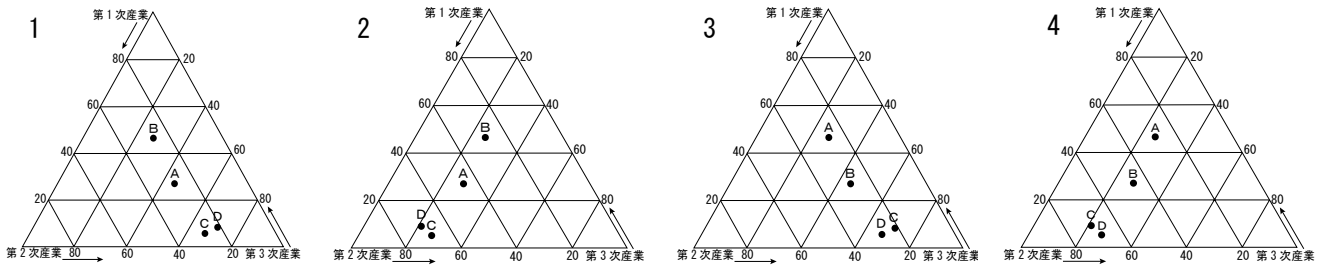

(5) 略地図Ｃの ◯ は，広大な針葉樹の森林地帯を示しています。この森林の名称を，**カタカナ**で書きなさい。

(6) Ｄの国では，1973 年以降，海底資源の開発が積極的にすすめられてきました。この海底資源とは何か，書きなさい。

2 下の資料は，ある生徒が日本の本州五地方の気候についてまとめたものです。後の(1)～(6)に答えなさい。(12点)

資料

A地方（９県）
日本海側：冬は雪が多く豪雪地帯。米どころとして有名な県もある。
中央高地：山に囲まれ盆地が多く，降水量が少ない。内陸部は，１年を通して降水量が少ない。
太平洋側：季節風の影響により温暖で，雪は少ない。①海側は自動車産業などがさかんである。

B地方（２府５県）
北部：冬は北西季節風の影響で雪が多い。
中央部：海側は瀬戸内の気候で，雨が少ない。内陸の盆地は夏・冬の寒暖差が大きい。
南部：②海流の影響で冬も温暖。紀伊山地は日本有数の多雨地域で樹木の成長が早い。

C地方（６県）
日本海側：夏は晴天が多く気温も高い。冬は降雪が多い。
太平洋側：夏は③海流の影響で④冷たく湿った北東の風が吹くことがある。冬は降雪が少ない。

D地方（１都６県）
大部分が太平洋側の気候で温暖。梅雨時には降水が多い。冬は乾燥しており晴天が多い。⑤日本一広い平野が広がっている。

E地方（５県）
日本海側：冬には雪が多く降ることもある。
瀬戸内海側：年間を通じて降水量が少なく温暖。

(1) ①＿＿＿について，この地域の工業別生産額の割合として適切なものを，次の１～４の中から一つ選び，その番号を書きなさい。

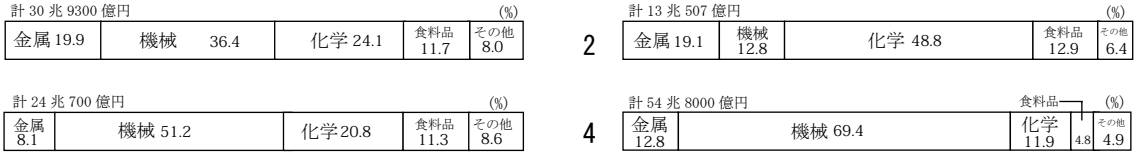

（2020 年「データブック・オブ・ザ・ワールド」他による）

(2) ②＿＿＿と③＿＿＿の「海流」の組み合わせとして適切なものを，次の１～４の中から一つ選び，その番号を書きなさい。

1　②日本海流・③対馬海流　　2　②対馬海流・③リマン海流
3　②日本海流・③千島海流　　4　②千島海流・③リマン海流

(3) ④＿＿＿について，この風が継続的に吹き込むと冷夏となり，農作物の収量が減少するなど大きな被害をもたらします。この風を何と呼ぶか書きなさい。

(4) ⑤＿＿＿について，この平野は火山灰が堆積した赤土におおわれています。この赤土を何というか，名称を書きなさい。

(5) C地方とE地方を合わせた県の中で，下の例のように県名と県庁所在地名が異なる県はいくつあるか，数字で書きなさい。　（例）北海道－札幌市

(6) 本州五地方に関する説明内容として**適切でないもの**を，次の１～４の中から一つ選び，その番号を書きなさい。

1　この地方は，日本海側での稲作がとくにさかんで，銘柄米の種類が多い。また，さくらんぼやもも，りんごなどの果樹栽培がさかんな県も多い。
2　この地方のある都市では，古い町並みが残され，世界遺産に登録されている場所が多い。江戸時代には商業の中心となり「天下の台所」と呼ばれた都市もある。
3　この地方には，日本の政治経済の中心があり，世界でも有数の大都市がある。人口が過密しており，その大きな市場を利用して，近郊農業が盛んである。
4　この地方には，世界最大級のカルデラが形成されている場所がある。また，南部ではシラスが広がり養分が少なく，水持ちが悪いので，畜産や畑作がさかんである。

3 下のＡ～Ｄのカードは，中学校の授業で「日本の衣服の歴史」を，生徒が時代ごとにまとめたものです。後の（1）～（8）に答えなさい。（17 点）

A ①古墳時代，②古墳の埴輪（はにわ）に見られるツーピース型の衣服を着るようになり，男性はズボンのようなもの，女性はロングスカートのようなものを下半身にはき，上半身には丈の短い衣服を着ていました。

B ③奈良時代の最初は「漢服」と呼ばれる大きな袖口を持つ，全体的にゆったり仕立てられた衣服を着ていましたが，やがて④平安時代になると身幅や袖幅がゆったりした衣服の十二単や束帯（そくたい）へと移行していきました。

C ⑤武家の衣服は公的な場では公家同様「大袖」，私的な場では「小袖」を着るようになりましたが，庶民の麻でできた小袖とは違い，武家の小袖は絹のたもと付き小袖でした。また，⑥室町時代後期の町人は，絹の小袖を着るようになりました。

D ⑦大名が領地を与えられ自治を任せられると，男性の制服とも言える「裃」（かみしも）が誕生しました。男性は⑧身分制度の維持のため，自由に衣服が選択できませんでした。女性は，比較的自由が許されていたため，身分や階層の違いによって好みの小袖を楽しんでいました。

(1) ①＿＿＿について，古墳時代の様子について述べた文として適切なものを，次の 1 ～ 4 の中から一つ選び，その番号を書きなさい。

1　渡来人などによって優れた技術が伝えられた。　　2　縄目の文様のついた土器が使われた。
3　大宝律令がつくられ，国家のしくみが定まった。　　4　かな文字が用いられるようになった。

(2) ②＿＿＿について，2019 年に世界遺産に登録された古墳群の名称として適切なものを，次の 1 ～ 4 の中から一つ選び，その番号を書きなさい。

1　三内丸山　　2　百舌鳥・古市（もず・ふるいち）　　3　大和　　4　埼玉

(3) ③＿＿＿について，この時代につくられた地方の地理や伝承を記した書物を一般的に何というか，書きなさい。

(4) ④＿＿＿について，資料 1 は，４人の娘を天皇のきさきにすることで勢力をのばした人物の和歌です。これを詠んだ人物の名前を書きなさい。

資料 1

この世をば　わが世とぞ思ふ　望月の　欠けたることも　無しと思へば

(5) ⑤＿＿＿について，平氏と源氏に関することがらを述べた内容として**適切でないもの**を，次の 1 ～ 4 の中から一つ選び，その番号を書きなさい。

1　平清盛は，平治の乱で源義朝に勝利して太政大臣となり，一族も高い地位についた。
2　平将門は，瀬戸内海周辺の武士を率いて反乱をおこし，大宰府を占領した。
3　源義経は，源義仲をやぶり，その後西国で平氏と戦い，壇ノ浦で平氏を滅ぼした。
4　源頼朝は，国ごとに守護，荘園や公領ごとに地頭をおくことを朝廷に認めさせた。

(6) ⑥＿＿＿について，この時代，九州の大名・大村氏は宣教師のすすめで，1582 年ローマ法王のもとに使節を送りました。資料 2 は，４人の少年と神父を描いた絵です。この使節の名前を書きなさい。

資料 2

(7) ⑦＿＿＿について，江戸幕府が大名や朝廷の反抗を警戒して出した法令を一つ挙げて，その内容を簡潔に書きなさい。

(8) ⑧＿＿＿について，この時代は身分制度が確立し，農民に対して幕府や藩は，村ごとに５～６戸を１組として，年貢の納入や犯罪の防止について連帯責任を負わせました。この組織の名称を**漢字**で書きなさい。

4 下の年表や資料を見て，後の (1) ～ (8) に答えなさい。(18 点)

年表

年	こ と が ら
1873 年	①地租改正条例公布
1883 年	②明治政府建築の社交場開館
1911 年	③工場法の制定
1919 年	④連合国とドイツがベルサイユ条約締結
1929 年	⑤世界恐慌がおこる
	⑥ファシズム国家の登場
1945 年	⑦ポツダム宣言受諾

A

B

資料 1

(1) ①_____について，日本政府が行った地租改正の目的を，財政の面から書きなさい。

(2) ②_____について，資料 1 は，政府がとった政策の一つを表しています。 あ と い に当てはまる語句を書きなさい。

政府は，1883 年に開館した あ 館で舞踏会を開くなどの い 政策をとった。

(3) ③_____について，資料 2 は，この時代に製糸工場で働く女性の一日を表したものです。製糸工場で働く女性の労働環境について，資料 2 から読みとれることを書きなさい。

資料 2

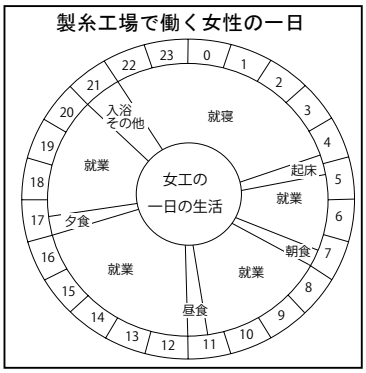

（「職工事情」による）

(4) ④_____について，アメリカ合衆国大統領ウィルソンが唱えた民族自決の提案にもとづき，世界平和と国際協調をうたう国際連盟が誕生しました。次のうち常任理事国とならなかった国はどれか，適切なものを，次の 1 ～ 4 の中から一つ選び，その番号を書きなさい。

1 イギリス　　2 フランス　　3 日本　　4 アメリカ

(5) ⑤_____について，アメリカ合衆国政府がこの対策として，公共事業を積極的に導入した理由を書きなさい。

(6) A の期間について，この時代はデモクラシーの風潮の中で，社会運動がさかんに行われました。この時代の社会運動のようすについて述べた説明として**適切でないもの**を，次の 1 ～ 4 の中から一つ選び，その番号を書きなさい。

1 団結権を認めた労働組合法が制定され，労働条件の改善を求める労働争議が活発化した。
2 農村では，小作料の引き下げや耕作する権利を地主に要求する小作争議がおこった。
3 部落差別に苦しんでいた人々は，全国水平社をつくって自由・平等を求めた。
4 平塚らいてうたちは，女性に対する差別や女性の参政権の獲得を目指す運動を積極的におこなった。

資料 3

(7) ⑥_____について，B の期間にドイツ・イタリアなどのファシズム諸国が台頭する時代に，ピカソは，資料 3 の美術史において有名な反戦絵画を描きました。この作品名を書きなさい。

(8) ⑦_____について，日本の降伏と同時に連合国軍が日本を占領し，東京に連合国軍総司令部（GHQ）がおかれ，最高司令官の指導のもとに占領政策が実施されました。この最高司令官の名前を書きなさい。

5 下の資料は，ある生徒が中学校の授業の内容をまとめたものです。後の（1）～（5）に答えなさい。（16点）

(1) 資料1は，ある選挙制度による選挙の結果について，Ａ～Ｅの政党別に全国の各選挙区の投票数と当選者数をそれぞれ合計し，得票率と議席割合を表したものです。**ア**，**イ**の問いに答えなさい。

資料1

	Ａ党	Ｂ党	Ｃ党	Ｄ党	Ｅ党
得票率（%）	37.3	35.0	14.8	7.8	5.1
議席割合（%）	39.5	37.3	13.9	6.5	2.8

ア　ある選挙制度とは何か書きなさい。

イ　**ア**の選挙制度であると判断した理由を簡潔に書きなさい。

(2) 資料2は国会の種類を表しています。Ａ～Ｄにあてはまる語句の組み合わせとして適切なものを，次の1～4の中から一つ選び，その番号を書きなさい。

資料2

種類	召集
（　Ａ　）	毎年1回，1月に召集され，予算の審議を行う。会期は150日間。
（　Ｂ　）	内閣が必要と認めたとき，または，衆参いずれかの議院の総議員の4分の1以上の要求があった場合に召集される。
（　Ｃ　）	衆議院解散後の総選挙の日から30日以内に召集される。
参議院の（　Ｄ　）	衆議院解散中，国会の議決を必要とする緊急の問題が生じた場合に，内閣の請求によって召集される。

1　Ａ－臨時会　Ｂ－緊急集会　Ｃ－常会　Ｄ－臨時会
2　Ａ－常会　Ｂ－緊急集会　Ｃ－特別会　Ｄ－臨時会
3　Ａ－特別会　Ｂ－臨時会　Ｃ－常会　Ｄ－緊急集会
4　Ａ－常会　Ｂ－臨時会　Ｃ－特別会　Ｄ－緊急集会

(3) 下の文は日本国憲法第41条の条文一部です。文中のＸ，Ｙにあてはまる語句をそれぞれ**漢字**で書きなさい。

> 国会は，（　Ｘ　）の最高機関であつて，
> 国の唯一の（　Ｙ　）機関である。

(4) 資料3は国会の審議の流れを表しています。これを見て，**ア**・**イ**の問いに答えなさい。

資料3

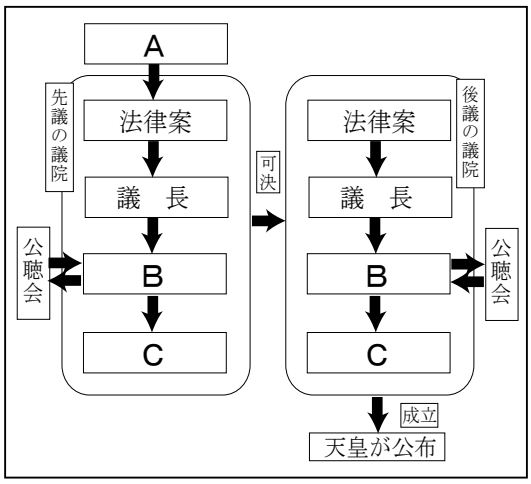

ア　法律案を国会に提出するのはだれか，資料3のＡにあてはまる語句を２つ書きなさい。

イ　法律案の内容は，まず資料3のＢで審議されＣへと進みます。それぞれにあてはまる語句を**漢字**で書きなさい。

(5) 資料3のように審議は進められますが，たがいに反対の議決ばかりをしていると，いつまでも決まらなくなるので，いくつかの重要な点では衆議院の議決を優先させるなど，衆議院の優越が認められています。次のうち「衆議院の優越」の事項として**適切でないもの**を，次の1～4の中から一つ選び，その番号を書きなさい。

1　予算の先議　　2　内閣不信任の決議　　3　法律改正の発議　　4　条約の承認

6 太郎さんは，地方自治の学習として青森県議会について調べました。後の (1) ～ (7) に答えなさい。(14点)

平成３１年の①青森県議会について調べてわかったこと	
提出された議案	○平成 31 年度②青森県一般会計 ○青森県がん対策推進条例の一部を改正する条例　など
議員から出された一般質問 〔 ③請願が出されたものを含む 〕	○中小④企業の事業継承について ○⑤原子力政策について ○⑥クロマグロの資源管理について ○⑦農業の労働力不足について　など

(1) ①＿＿＿について，青森県議会の仕事として**適切でないもの**を，次の１～４の中から一つ選び，その番号を書きなさい。

1　県の仕事が正しくおこなわれているか調査する。　　2　条例の制定をする。
3　知事，副知事を指名する。　　4　予算の議決をする。

(2) ②＿＿＿について，資料１は，青森県の平成 30 年度歳入決算の構成内訳を示しています。Ｘに当てはまるものはどれか，次の１～４の中から一つ選び，その番号を書きなさい。

1　教育費　　2　国庫支出金　　3　防衛費　　4　道路整備費

資料１

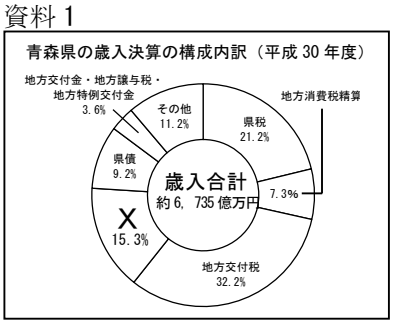

〔「平成 30 年度青森県財政事情」による〕

(3) ③＿＿＿について，日本国憲法で保障されている請願権の説明として適切なものを，次の１～４の中から一つ選び，その番号を書きなさい。

1　満 20 歳以上になると，はじめて請願権が認められる。
2　請願権は，国に損害賠償を請求する権利である。
3　苦情などを述べる請願権は，自由権のひとつである。
4　地方公共団体以外に，国に対しても請願を行うことができる。

資料２

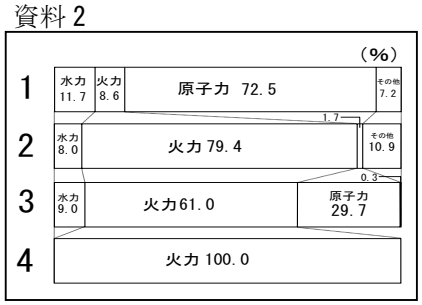

〔「日本国勢図会 2017/18 版」による〕

(4) ④＿＿＿について，企業の説明として**適切でないもの**を，次の１～４の中から一つ選び，その番号を書きなさい。

1　日本の大多数の企業は，中小企業である。
2　企業間の競争が弱まると，商品の価格や質は低下する。
3　資本主義経済では，私企業の生産活動が中心となっている。
4　国や地方公共団体が，経営する企業を公企業とよんでいる。

資料３

生産者（漁業者） ▶ 卸売業者（市場等） ▶ 小売業者（スーパー等） ▶ 消費者

資料４

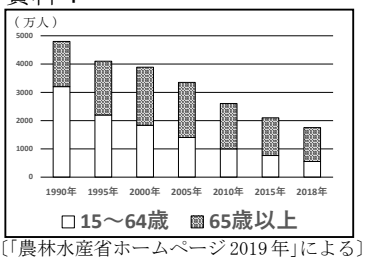

〔「農林水産省ホームページ 2019 年」による〕

(5) ⑤＿＿＿について，資料２は日本・フランス・中国・サウジアラビアの発電量の内訳を示しています。フランスにあてはまるものを，資料２の１～４の中から一つ選び，その番号を書きなさい。

(6) ⑥＿＿＿について，大間港で水揚げされたクロマグロは，資料３のように消費者のもとへ円滑に届けられます。このように生産者から消費者に届くまでの一連の流れを何というか，**漢字２字**で書きなさい。

(7) ⑦＿＿＿について，資料４はわが国の農業就業人口の推移を示したグラフです。右の会話は，太郎さんと花子さんがわが国の農業における課題について話し合った会話の一部です。Ｙにあてはまる言葉を，資料４を参考にして簡潔に書きなさい。

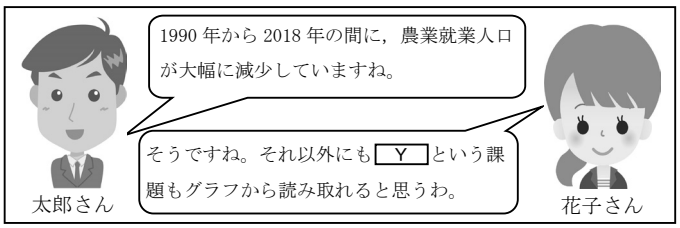

7 下の文章は，太郎さんとあきさんの会話です。これを読んで，後の（1）～（5）に答えなさい。（10点）

太郎さん：今年は①オリンピックとパラリンピックが東京で開催されるね。アジアの都市でオリンピックが複数回開催されるのは東京だけなんだって。前回から56年ぶりになるそうだよ。当時の大会の様子をテレビで特集していたのをこの前見て，ずいぶん日本が様変わりしているように感じたよ。

あきさん：その頃は，日本が高度経済成長時代で，どんどん景気が良くなっていった時代だね。②1968年には資本主義国の中で③国民総生産が世界第2位になったって学校で習ったよ。

太郎さん：経済的にゆたかになった一方で，弊害も発生しているね。地球環境の問題って自分の国だけで解決できないものが多くあるね。

あきさん：人間の生活が豊かになればなるほどごみは増えるし，エネルギーの消費量も多くなる。私たちの生活そのものが環境破壊の原因になっているわね。④毎日の生活の中で，ごみを減らし，まだ使えるものを再び使用し，ごみをリサイクルすることが必要よ。

太郎さん：未来へ向けて世界中が手を取り合って，⑤「持続可能な社会」を目指して地球市民としての意識を持って生活していくことが大切だね。

あきさん：私たちが未来のためにできることをしっかり考えていかないといけないわね。

(1) ①_____について，2020年のオリンピックは東京で開催されます。日本時間（東経135度）で2月13日10：00のとき，オリンピック発祥の地ギリシャ（東経30度）の日時として適切なものを，次の1～4の中から一つ選び，その番号を書きなさい。（サマータイムの期間ではありません。）

1　2月13日3：00　　2　2月13日17：00　　3　2月13日21：00　　4　2月12日23：00

(2) ②_____は，日本が好景気だった一方で，米ソ両国は，それぞれの陣営による新たな世界大戦が発生しかねないほど厳しい関係にありました。1986年には両陣営の和平と軍縮の動きの中，核保有国以外の国が核兵器を持つことを禁じる条約が締結されました。この条約の名称を書きなさい。

(3) ③_____について，この略称として適切なものを，次の1～4の中から一つ選び，その番号を書きなさい。

1　ＧＤＰ　　2　ＧＮＰ　　3　ＧＮＩ　　4　ＧＤＥ

(4) ④_____について，資料1は④_____の文章を図で表したものです。このような社会を何というか，**漢字**で書きなさい。

資料1

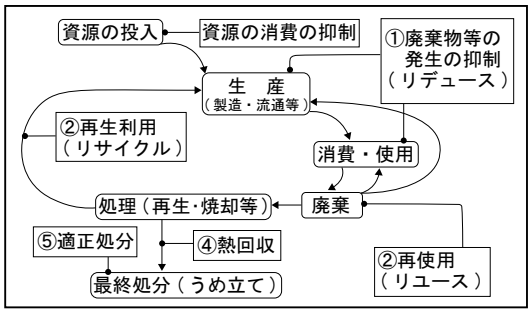

〔「環境省ホームページ」による〕

(5) ⑤_____とはどんな社会か，次の中から最も適切なものを，次の1～4の中から一つ選び，その番号を書きなさい。

1　現在の幸福を願って，積極的にエネルギーを消費し経済活動を持続して推進する社会。

2　豊かな生活を維持するために，積極的に発電を持続する社会。

3　将来の世代の幸福を考え，貧困撲滅のために地球資源を大量に消費してでも，持続的に経済発展を目指す社会。

4　将来の世代の幸福と現在の世代の幸福とを両立できる社会。